عناصر الإجابة (الموضوع الأوّل)	العلامة مجزأة	العلامة مجموعة
التّاريخ **الجزء الأوّل:** **1) شرح ما تحته خطّ في النّص:** ❖ **المنظمة الخاصّة:** الجناح العسكري لحركة انتصار الحريات الدّيمقراطية، تأسست بتاريخ 1947/02/15 مهمتها الأساسية التّحضير للثّورة المسلحة من خلال التّوعية، الانتقاء، التّدريبات، جمع التّبرعات والأسلحة، تولى رئاستها محمد بلوزداد واكتشفت عام 1950... ❖ **الكفاح المسلح:** شكل من أشكال المقاومة اعتمدته الثّورة الجزائرية ضد الاستعمار الفرنسي بهدف استرجاع السّيادة الوطنية، يقوم على استخدام القوة العسكرية، تكفل بتنفيذه جيش التّحرير الوطني من 1954 إلى غاية 1962 كلّل بوقف إطلاق النّار والاستقلال التّام...	01 01	06
2) التّعريف بالشّخصيات التّالية: ❖ **حسين آيت أحمد:** (1926- 2015) مناضل في حزب الشّعب، حركة انتصار الحريات الدّيمقراطية، ثاني رئيس للمنضمة الخاصّة بعد محمد بلوزداد، عضو مجموعة التّسعة، أحد أعضاء الوفد الخارجي للثّورة في القاهرة، اعتقل في حادثة اختطاف الاستعمار الفرنسي لطائرة الزّعماء الخمسة عام 1956... ❖ **هاري ترومان:** رئيس الولايات المتحدة الأمريكية (1945- 1953) له مبدأ باسمه، أحد رموز الحرب الباردة، كان طرفا في عدة أزمات دولية (أزمة برلين الأولى، أزمة كوريا) أمر بإلقاء القنبلتين الذريتين في نهاية الحرب العالمية2 على اليابان، ساند الهجرة اليهودية إلى فلسطين....	01 01	
3) الخريطة: التّوقيع على خريطة العالم التي تمثّل الأزمات الدّولية التّالية: **(أزمة برلين، أزمة كوريا، أزمة السّويس)** **- العنوان: 0.25 ن - المفتاح: 0.25 ن - الانجاز: 1.50 ن**	02	
الجزء الثّاني: **مقدّمة:** صراع الحرب الباردة بين الكتلتين وانعكاساته على العالم الثّالث.	0.5	
1) طبيعة الصّراع بين الكتلتين: **(تقبل كلّ مقدمة وظيفية تخدم الموضوع)** ❖ صراع إيديولوجي عقائدي بين الشّيوعية واللّيبرالية. ❖ بروز سياسة الاستقطاب استعمال عدة وسائل وأدوات لتحقيق ذلك. ❖ انشاء الأحلاف والقواعد العسكرية. ❖ صراع على مناطق النّفوذ خاصّة في دول الجنوب وتوسّع الشّيوعيّة في افريقيا، آسيا وأمريكا اللاّتينيّة. ❖ انتهاج الولايات المتّحدة الأمريكيّة لسياسة ملء الفراغ من جهة ودعم الاتّحاد السّوفياتي للحركات التّحرّريّة والأنظمة الثّوريّة من جهة أخرى. ❖ السّباق نحو التّسلّح النّووي وغزو الفضاء. **(تقبل كلّ الاجابات الصّحيحة الأخرى)**	0.25 6×	

odrous.com

عناصر الإجابة (الموضوع الأوّل)	العلامة مجزأة	العلامة مجموعة
2) انعكاسات الصّراع على العالم الثّالث: ❖ إقحام بلدان العالم الثّالث في هذا الصّراع إذ أصبحت أراضيها مسرحا له (أزمة الفيتنام 1954، السّويس 1956، كوبا 1962). ❖ انتشار الأحلاف والقواعد العسكريّة (حلف جنوب شرق آسيا وحلف بغداد). ❖ تعرّض دوله إلى سياسة الاحتواء من خلال مشاريع اقتصادية (مشروع إيزنهاور1957) وتكريس الاستعمار الجديد فيها كمناطق نفوذ. ❖ الخسائر المادّية والبشرية لبلدان العالم الثّالث نتيجة التّدخلات العسكريّة (الحرب الكوريّة...). ❖ ظهور روح التّضامن بين شعوب إفريقيا وآسيا والذي تجسّد في مؤتمر باندونغ ما بين 18 و24 أفريل 1955 وظهور حركة عدم الانحياز 1961. ❖ دعم بلدان العالم الثّالث لسياسة التّعيش السّلمي والانفراج الدّولي.	0.25 ×6	04
خاتمة: تكتّل العالم الثّالث وتبنّيه سياسة التّعايش والحياد الإيجابي لمواجهة صراع الكتلتين. **(تقبل كلّ خاتمة وظيفية تخدم الموضوع)**	0.5	
الجغرافيا **الجزء الأول:** **1) شرح ما تحته خط في النّص:** ❖ **الحواجز الجمركية:** رسوم ضريبية تفرضها الدّول على البضائع والسّلع الخارجية(الأجنبية) الواردة إليها لحماية منتجاتها الدّاخلية (الوطنية) من المنافسة وتكون منخفضة أو مرتفعة. ❖ **منظمة التّجارة العالمية:** منظمة اقتصادية (تجارية) دولية تأسست عام 1995 خلفا للاتفاقية العامة للتعريفة الجمركية(الغات) وتعمل على وضع القواعد والقوانين التي تنظم التّجارة الدّولية كما تتولى حلّ النّزاعات التّجارية بين الدّول الأعضاء، مقرها جنيف (سويسرا)	01 01	06
2) التّمثيل البياني: دائرة نسبية تمثّل نسب أكبر مصدري الغاز الطّبيعي للاتحاد الأوربي – **– الانجاز: 1.25 ن – المفتاح:0.25 ن – المقياس:0.25 – العنوان: 0.25 ن** – **حساب الزّوايا:** ✓ روسيا: 40.6 % × 3.6° = 146.16° ✓ النّرويج: 38.8 % × 3.6° = 139.68° ✓ الجزائر: 10.7 % × 3.6° = 38.52° ✓ قطر: 4.9 % × 3.6° = 17.64° ✓ بلدان أخرى: 5 % × 3.6° = 18° **(تقبل كلّ الاجابات الصّحيحة الأخرى)**	02	

odrous.com

عناصر الإجابة (الموضوع الأوّل)	العلامة مجزأة	العلامة مجموعة
العنوان: دائرة نسبية تمثّل أكبر مصدري الغاز الطّبيعي للاتحاد الأوربي عام 2018 **المقياس:** **نصف القطر = 04 سم.** **المفتاح:** **1) روسيا= 40.6%** **2) النّرويج= 38.8%** **3) الجزائر= 10.7 %** **4) قطر= 4.9%** **5) بلدان أخرى= 05%** 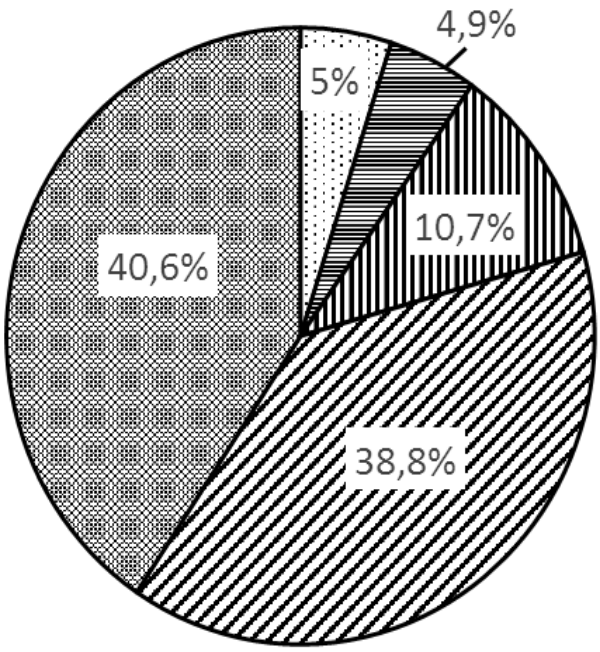 		
3) التّعليق على الرّسم البياني (دائرة نسبية) الذي يمثل نسب أكبر مصدري الغاز الطّبيعي للاتحاد الأوربي عام2018.. ❖ تباين في نسب الغاز المصدر إلى الاتحاد الأوربي. ❖ ارتفاع نسب استيراد الاتحاد الأوربي للغاز الطّبيعي بسبب افتقاره لهذه المادّة. ❖ 79.4% من واردات الاتحاد الأوربي تأتي من روسيا والنّرويج بسبب القرب الجغرافي ❖ 10.7% من الغاز الطّبيعي الذي تستورده دول الاتحاد الأوربي مصدره الجزائر بسبب العامل الجغرافي والتّاريخي. **(تقبل كلّ الاجابات الصّحيحة الأخرى)**	×0.50 4	

odrous.com

عناصر الإجابة (الموضوع الأوّل)	العلامة مجزأة	العلامة مجموعة
الجزء الثّاني: **مقدمة:** عالم الشّمال بين الاستغلال الأمثل للإمكانيات المتوفرة ومواجهة المشاكل المطروحة. **(تقبل كلّ مقدمة وظيفية تخدم الموضوع)** **1) مظاهر التّقدم الاقتصادية والاجتماعية لعالم الشّمال:** ب) **الاقتصادية:** ❖ ارتفاع النّاتج القومي. ❖ ضخامة الإنتاج الصّناعي والزّراعي. ❖ التّحكم في التّجارة والأسواق العالمية. ج) **الاجتماعية:** ❖ ارتفاع الدّخل الفردي وتحسن مستوى المعيشة. ❖ تطور الخدمات الصّحية والتّعليمية. ❖ ارتفاع متوسط العمر وانخفاض نسبة الوفيات. **2) المشاكل التي تواجهه:** ❖ التّبعية في مجال الطّاقة والمواد الاولية. ❖ المنافسة الخارجية (بين دول الشّمال، أو من القوى الصّاعدة). ❖ الأزمات الاقتصادية والمالية الدّورية. ❖ ارتفاع نسبة الشّيخوخة. ❖ ارتفاع نسبة البطالة. ❖ الآفات الاجتماعية (الاجرام، المخدرات...). **خاتمة:** رغم تقدم عالم الشّمال إلّا أنّه لا يستطيع تجنب المشاكل التي تواجهه. **(تقبل كلّ خاتمة وظيفية تخدم الموضوع)** **(تقبل كلّ الاجابات الصّحيحة الأخرى)**	0.50 0.25 ×6 0.25 ×6 0.50	04

odrous.com

العنوان: خريطة العالم تمثّل 03 أزمات دولية في اطار الحرب الباردة)

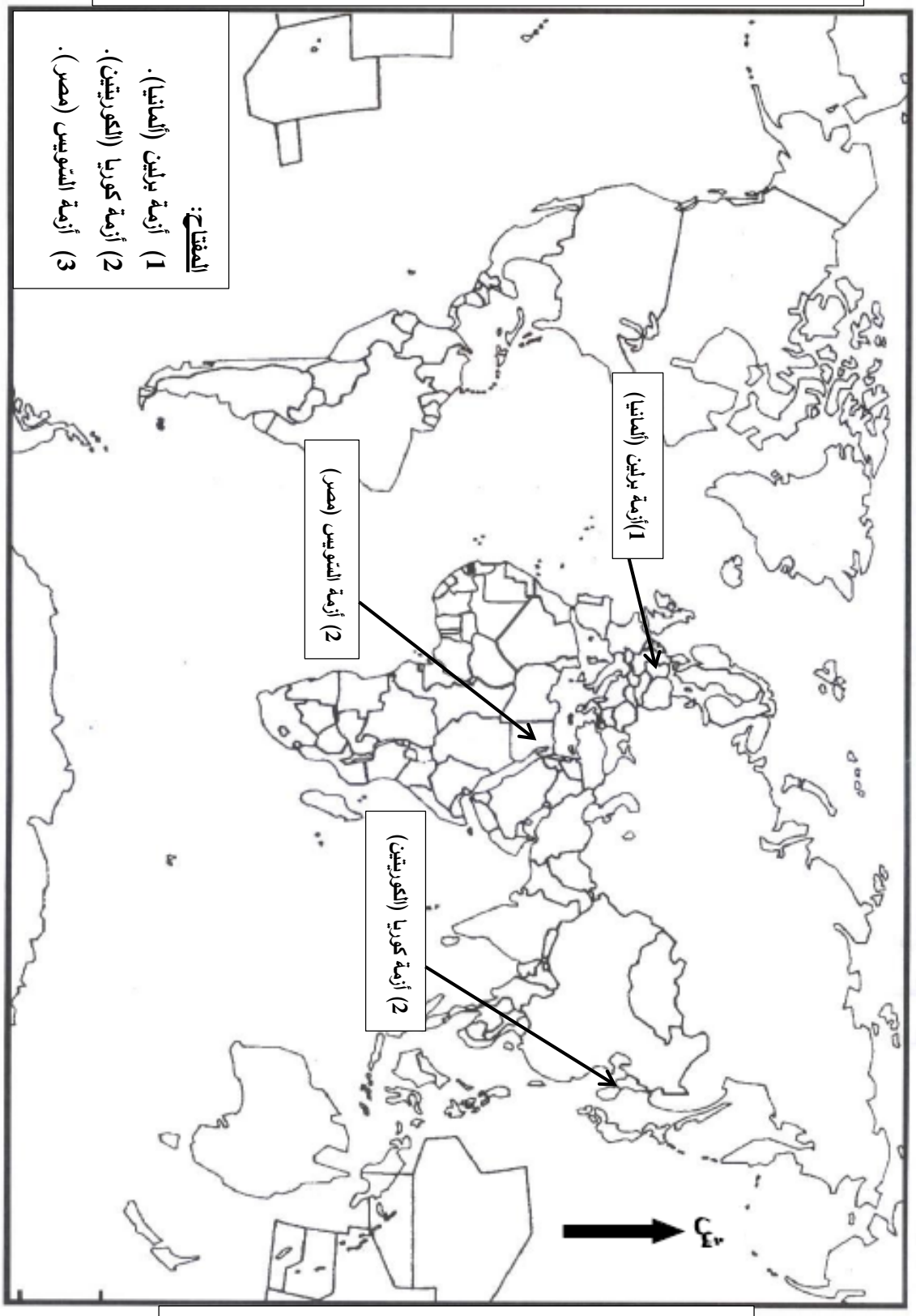

ينجز العمل المطلوب على الخريطة وتعاد مع أوراق الإجابة

odrous.com

عناصر الإجابة (الموضوع الثّاني)	العلامة مجزأة	العلامة مجموعة
التّاريخ:		
الجزء الأول:		
1) شرح ما تحته خطّ في النّص:		
❖ **منظمة الأمم المتحدة:** تنظيم دولي ظهر بعد الحرب العالمية الثّانية (24 أكتوبر 1945) مقره نيويورك، يتكون من عدة اجهزة أهمها مجلس الأمن الدّولي والجمعية العامة يهدف إلى حفظ الأمن والسّلم العالميين.	01	
❖ **الأزمات الدّولية:** هي بؤر التّوتر التي ميزت العلاقات الدّولية خلال الصّراع بين المعسكرين (الحرب الباردة) منها: أزمة برلين، أزمة كوريا، أزمة السّويس، أزمة كوبا....	01	
2) التّعريف بالشّخصيات:		
❖ **جوزيف بروز تيتو:** رئيس يوغسلافيا، قاول الغزو الألماني خلال الحرب العالمية 2، طبق النّظام الشّيوعي، من زعماء العالم الثّالث، أحد مؤسسي حركة عدم الانحياز في مؤتمر بلغراد يوغسلافيا 1961.	01	
❖ **رونالدّ ريغن:** رئيس الولايات المتحدة الأمريكية(1981– 1988)، أطلق مبادرة الدّفاع الاستراتيجي ضد الاتحاد السّوفياتي (حرب النّجوم) في مشروع يحمل اسمه، انتهج سياسة خارجية متشددة في عام 1983	01	06
3) اكمال الجدول التّالي:		
الحدث: مشروع ايزنهاور — التّاريخ: 1957/01/05	01	
الحدث: اضراب الطّلبة الجزائريين والتّحاقهم بالثّورة — التّاريخ: 19 مـاي 1956	01	
الجزء الثّاني:		
مقدمة: الثّورة التّحريرية بين الاستراتيجية السّياسية وأهمية العمل الدّبلوماسي.	0.50	
(تقبل كلّ مقدمة وظيفية تخدم الموضوع).		
1) المجهود السّياسي للثّورة التّحريرية على المستوى الخارجي:		
❖ تشكيل الوفد الخارجي للثّورة الجزائرية ونشاطاته الدّيبلوماسية.		
❖ تأسيس فيدرالية جبهة التّحرير الوطني في الخارج.		
❖ المشاركة بوفد جزائري يمثل الثّورة في مؤتمر باندونغ 1955.	0.25	
❖ ادراج القضية الجزائرية في الدّورة العاشرة للجمعية العامة للأمم المتحدة 1955.	×6	
❖ انشاء الحكومة المؤقتة للجمهورية الجزائرية 1958 (واحداث وزارة الخارجية).		
❖ المشاركة في المهرجانات الثّقافية والمنافسات الرّياضية (فريق جبهة التّحرير الوطني) ودور اذاعة صوت العرب الجزائر الحرة ودور الطّلبة.		
(تقبل كلّ الإجابات الصّحيحة الأخرى)		

odrous.com

عناصر الإجابة (الموضوع الثّاني)	العلامة مجزأة	العلامة مجموعة
2) أهداف دبلوماسية الثّورة: ❖ التّعريف بالقضية الجزائرية في المحافل الدّولية. (باندونغ، الامم المتحدة، الجامعة العربية، معظم دول العالم...) ❖ فضح السّياسة الاستعمارية وكسر التّعتيم الإعلامي. ❖ كسب تعاطف الرّأي العام العالمي. ❖ عزل فرنسا دبلوماسيا. ❖ إثارة الرّأي العام الفرنسي. ❖ الحصول على دعم الدّول ماديا ومعنويا. **خاتمة:** التّكامل بين البعدين السّياسي والدّبلوماسي ضرورة لنجاح الثّورة. **(تقبل كلّ خاتمة وظيفية تخدم الموضوع).**	0.25 ×6 0.50	04
الجغرافيا: **الجزء الأول:** **1) شرح ما تحته خطّ في النّص:** ❖ **الاستثمارات:** توظيف رؤوس الأموال في مشاريع مختلفة (تجارية، زراعية، صناعية...) من أجل تحقيق الرّبح والفائدة... ❖ **الشّركات متعددة الجنسيات:** شركات عملاقة عابرة للقارات تقع مقراتها بالدّول المتقدمة، لها فروع في مختلف مناطق العالم، تهيمن على مختلف الأنشطة الاقتصادية مثل: الشقيقات السبع.... **2) التّعليق على المعطيات الإحصائية الواردة في الجدول التي تمثّل بعض الدّول المنتجة للبترول في العالم عام 2017:** ❖ التّباين البترول من دولة إلى أخرى في الجدول.... ❖ هيمنة ثلاث دول (الولايات المتحدة الأمريكية، المملكة العربية السّعودية، روسيا) على معظم النّتاج العالمي نظرا للاحتياطات الضّخمة وامكانيات الانتاج الضّخمة.... ❖ وجود أربع دول تنتمي لمنظمة الأوبيك (المملكة العربية السّعودية، العراق، ايران، الامارات) **3) الخريطة: التّوقيع على خريطة العالم 03 دول عضوة في منظمة الأوبيك الواردة في الجدول:** **(المملكة العربية السّعودية، العراق، ايران، الامارات العربية المتحدة)** **– العنوان: 0.25 – المفتاح: 0.25 – الانجاز:01.50** **(تقبل كلّ الإجابات الصّحيحة الأخرى)**	01 01 0.75 0.50 0.75 02	06

odrous.com

عناصر الإجابة (الموضوع الثّاني)	العلامة مجزأة	العلامة مجموعة
الجزء الثّاني: **مقدمة:** امكانيات الاقليم الشّمالي الشّرقي ودوره في الاقتصاد الأمريكي. **(تقبل كلّ مقدمة وظيفية تخدم الموضوع).**	0.50	
1) امكانيات الاقليم الشّمالي الشّرقي للولايات المتحدة الأمريكية: ❖ يشغل 12% من المساحة الكلية و42% من السّكان (اليد العاملة وسوق استهلاكية) ❖ المناخ المعتدل الملائم للنّشاط البشري(في الزّراعة، الصّناعة، التّجارة، الخدمات...) والتّربة الخصبة(السّهول السّاحلية). ❖ يتوفر على ثروات طبيعية ضخمة (بترول، حديد، فحم...) ❖ يتوفر على مجاري مائية(البحيرات العظمى) السّواحل(الموانئ) توفر البنيات التّحتية المتطورة (الطّرقات، الموانئ، الممرات المائية...). ❖ وجود المؤسسات المالية، البورصات، الجامعات، مؤسسات البحث العلمي والتّكنولوجي، مقرات المنظمات الدّولية (الأمم المتحدة، صندوق النّقد الدّولي، البنك العالمي.... ❖ الانفتاح على العالم الخارجي خاصّة أوربا وافريقيا....	0.25 6×	04
2) دور الاقليم الشّمالي الشّرقي في اقتصاد الولايات المتحدة الأمريكية: ❖ يساهم بنسبة مرتفعة في الاقتصاد الأمريكي (زراعة، صناعة، تجارة، خدمات سياحة، مواصلات...) وهو اقليم متكامل. ❖ أكبر اقليم صناعي في العالم 50% من الانتاج الصّناعي الأمريكي. ❖ يساهم في استقطاب لرؤوس الأموال وقطب مالي عالمي (أكبر تجمع للبنوك والبورصات...). ❖ تتواجد به مقرات أكبر الشّركات الأمريكية وصاحب القرار السّياسي والاقتصادي. ❖ استفاد من الهجرة الخارجية وتتمركز فيه جل الأنشطة الاقتصادية الأمريكية ويوفر فرص العمل ❖ اقليم زراعي (تربية المواشي، الألبان، الزّراعة الغذائية...)	0.25 6×	
خاتمة: كان للإقليم الشّمالي الشّرقي الدّور الكبير في قوة الاقتصاد الأمريكي. **(تقبل كلّ خاتمة وظيفية تخدم الموضوع).** **(تقبل كلّ الإجابات الصّحيحة الأخرى)**	0.50	

odrous.com

العنوان: خريطة العالم تمثّل ثلاث دول عضوة في منظمة الأوبيك واردة في الجدول

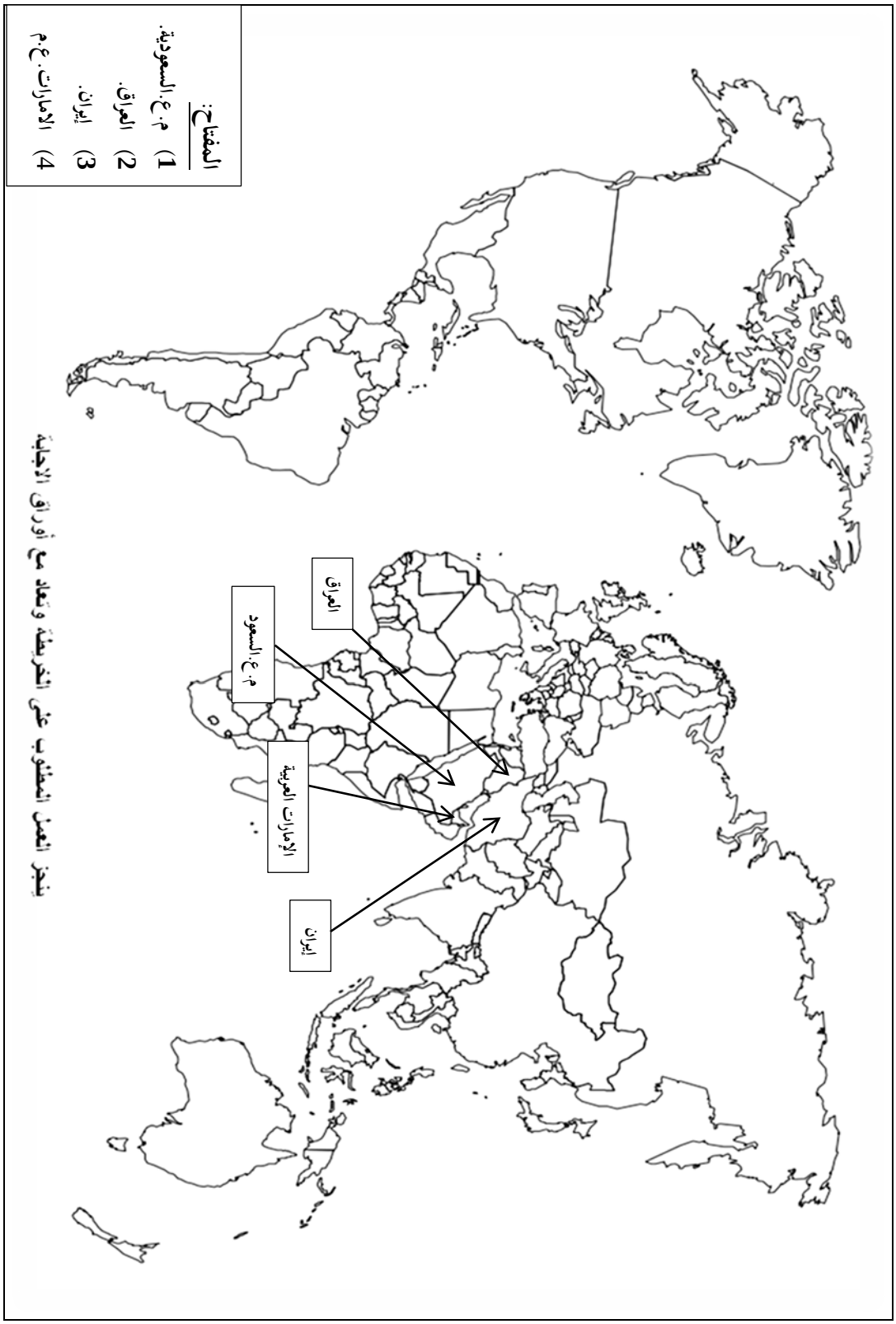

ينجز الفعل المطلوب على الخريطة وتعاد مع أوراق الإجابة

odrous.com