عناصر الإجابة: (الموضوع الأول)	العلامة مجزأة	العلامة مجموع
***التاريخ:**		
***الجزء الأول:**		
1) شرح ما تحته خطّ في النّص:		
❖ **الأزمة الكورية:** حرب أهلية وأزمة من أزمات الحرب الباردة (1953/1950) انتهت دون غالب أو مغلوب، مما أدى إلى تقسيم كوريا إلى دولتين عند خط 38° شمالا، كوريا الجنوبية الرأسمالية وكوريا الشمالية الشيوعية.	0.75	
❖ **العلاقات الدّولية:** مختلف المبادئ والضوابط والروابط السياسية والعسكرية والاقتصادية ...التي يتم بموجبها تنظيم العلاقات بين الدّول وتنظمها المعاهدات والاتفاقيات والمنظمات الدولية...	0.50	
❖ **ملء الفراغ:** سياسة تبنتها الولايات المتحدة الامريكية في عهد ايزنهاور خلال الحرب الباردة لمنع المد الشيوعي وتراجع الاستعمار التقليدي (فرنسا وبريطانيا) في مستعمراتها في الشرق الأوسط فيتنام.... أو يقصد به تعويض التواجد العسكري (للاستعمار التقليدي) في العديد من مناطق العالم أثناء الحرب الباردة بتواجد امريكي أو سوفياتي .	0.75	06
2) إكمال الجدول التّالي:		
الحدث: تأسيس حلف وارسو — تاريخه: 1955/05/14	0.75	
الحدث: سريان وقف اطلاق النا ر(عيد النص) — تاريخه: 1962/03/19	0.75	
الحدث: تحطيم جدار برلين — تاريخه: 1989/11/09	0.50	
3) التوقيع على خريطة الجزائر التاريخية الحدثين – العنوان: 0.25 – المفتاح: 0.25 . **– التوقع والإنجاز: توقيع الحدثين: 0.50 × 2 – ذكر اسم المنطقتين: 0.25 × 2**	02	
***الجزء الثاني:**		
* **مقدمة:** الثورة الجزائرية بين ظروف اندلاعها ورد فعل الاستعمار الفرنسي. **(تقبل كلّ مقدمة وظيفية)**	0.50	
1) **الظروف الدولية والاقليمية التي اندلعت فيها الثّورة الجزائرية:**		
أ) الدولية:		
❖ انتشار موجة التحرر في العالم....	0.25	
❖ انهزام فرنسا في معركة ديان بيان فو في الفيتنام عام 1954...	× 3	
❖ ظهور هيئة الأمم المتحدة ودعوتها لحق الشعوب في تقرير مصيرها وانفراج العلاقات الدولية...		
❖ **ب) الاقليمية:**		04
❖ انتصار الثّورة المصرية عام 1952 ودعمها لثّورة الجزائر...	0.25	
❖ اندلاع الثّورة في تونس والمغرب واستقلال بعض الدّول مثل سوريا ولبنان عام 1946...	× 3	
❖ ظهور جامعة الدّول العربية ودعم حركات التحرر في الوطن العربي...		
2) **ردود فعل الاستعمار الفرنسي السياسية والعسكرية للقضاء عليها عند اندلاعها:**		
أ- السياسية:		
❖ حلّ حركة الانتصار للحريات الديمقراطية...	0.25	
❖ قيام بحملة اعتقالات واسعة والتعتيم الإعلامي	× 3	
❖ الدعاية المغرضة واعتبار الثوار متمردين وعملاء من الخارج... **(تقبل كلّ الإجابات الصحيحة الأخرى)**		

odrous.com

ب-العسكرية: ❖ محاصرة منطقة الأوراس عسكريا... ❖ توزيع الأسلحة على المعمرين... ❖ رفع عدد الجيش الفرنسي... ***خاتمة:** رغم إجراءات الاستعمار الفرنسي إلاّ أنّ الثّورة الجزائرية نجحت في انطلاقتها. **(تقبل كلّ خاتمة وظيفية)**	0.25 × 3 0.50	
***الجغرافيا:** ***الجزء الأول:** **1) شرح ما تحته خطّ في النّص:** ❖ **الدّول المتقدمة:** مجموعة الدّول التي تعرف تطورا اقتصاديا كبيرا تتحكم في الاقتصاد العالمي إنتاجا وتسويقا، وفي رؤوس الاموال، يقع معظمها في شمال الكرة الأرضية مثل (الولايات المتحدة الأمريكية، دول الاتحاد الأوربي، دول آسيا...). ❖ **المواد الأولية:** مواد خام معدنية، طاقوية، ونباتية تستخدم في النشاط الصناعي ولا يمكن استهلاكها إلاّ بعد تحويلها إلى مواد مصنعة.... **الأسواق:** الفضاءات التي يتم فيها تبادل السلع والخدمات بين الدول في شكل صادرات وواردات أو الدول المتخلفة التي يتم فيها تصريف المواد المصنعة مقابل تصديرها للمواد الأولية	0.75 0.75 0.50	06
2) أ) تمثيل المعطيات الإحصائية الواردة في الجدول والتي تمثّل أكبر البلدان المستهلكة للغاز الطبيعي بين عامي 2020 و 2021 بأعمدة بيانية. ❖ **الانجاز: 01 ن – العنوان:0.50 ن – المقياس: 0.25 ن – المفتاح: 0.25 ن**	02	
ب) التعليق على الرسم البياني(أعمدة بيانية تمثّل أكبر البلدان المستهلكة للغاز ط بين عامي 2020 و 2021. ❖ تباين كمية استهلاك الغاز الطبيعي بين الدّول الواردة في الجدول. ❖ هيمنة الدول المتقدمة على استهلاك الغاز الطبيعي (5 دول من مجموعة G7+روسيا). ❖ ضخامة كمية استهلاك الولايات المتحدة الأمريكية (أكثر من باقي دول G7 مجتمعة). ❖ تنامي قوة الصين الصناعية وضخامة استهلاكها للغاز الطبيعي.	0.50 × 4	
***الجزء الثاني:** ***مقدمة:** دور الواجهة البحرية وسياسة التكتل في تحقيق المكانة الاقتصادية للاتحاد الأوربي. **(تقبل كلّ مقدمة وظيفية)**	0.50	
1) مساهمة الواجهة البحرية الشمالية والغربية في الاقتصاد الأوربي: ❖ ربطت بين بعض بلدان الاتحاد الأوروبي وبعض مدنه عبر نهر الراين. ❖ جعلت الاتحاد الأوربي منفتحا على العالم الخارجي (كثرة الموانئ.). ❖ وفرت مواد أولية طاقوية (بحر الشمال...). ❖ وفرت مجالا واسعا للصيد... ❖ أصبحت منطقة جذب سياحي كبير... ❖ ربطت بين بلدانه وبعض مدنه عبر نهر الراين إلى ميناء روتردام...	0.25 × 6	04
2) أهمية سياسة التكتل في تطور الاتحاد الأوربي اقتصاديا: ❖ وضعت سياسة مشتركة في جميع المجالات حققت بها التكامل الاقتصادي... ❖ سهلت استغلال إمكانياته المشتركة المتعددة...	0.25	

odrous.com

❖ وحّدت جهود دوله في كل القطاعات وأزالت كلّ العراقيل... ❖ حولت الاتحاد الأوربي إلى فضاء منفتح على العالم الخارجي... ❖ قللت من الفروقات الاقتصادية والاجتماعية بين بلدانه... ❖ جعلت منه سوقا استهلاكيا واسعا (ثقل ديمغرافي...). **(تقبل كلّ الإجابات الصحيحة الأخرى)** ***خاتمة:** إلى جانب الواجهة البحرية كان للتكتل دور في التطور الاقتصادي للاتحاد.**(تقبل كلّ خاتمة وظيفية)**	**6 ×** **0.50**	

odrous.com

عناصر الإجابة: (الموضوع الثاني)	العلامة مجزأة	العلامة مجموع
*التاريخ:		
*الجزء الأول:		
1) شرح ما تحته خطّ في النّص:		
❖ حوادث 8 ماي 1945: مجازر ارتكبها الاستعمار الفرنسي في حق الشعب الجزائري بعد خروجهم في مظاهرات في العديد من المدن خاصة قالمة، سطيف، خراطة... يحتفلون بانتصار الحلفاء في الحرب العالمة الثانية ومطالبين فرنسا الوفاء بوعودها، وهي جريمة ضد الانسانية راح ضحيتها أكثر من 45 ألف شهيد جزائري...	0.75	
❖ الأحزاب الوطنية الجزائرية: مختلف التشكيلات السياسية التي كانت تنشط في الجزائر بعد الحرب العالمية الثانية مثل الاتحاد الديمقراطي للبيان الجزائري، حركة الانتصار للحريات الديمقراطية...	0.50	
❖ الكفاح المسلح: أسلوب مقاومة (كفاح) يعتمد على السلاح (القوة)، تبنته الجزائر في ثورتها التحريرية (1962/1954) ضد الاستعمار الفرنسي بعد فشل النضال السياسي وذلك لتحقيق الاستقلال واسترجاع السيادة الوطنية...	0.75	
2) إكمال الجدول التّالي:		
الحدث: انعقاد مؤتمر باندونغ — تار خه: 1955/04/24-18	0.75	06
الحدث: إعلان مبدأ جدانوف — تار خه: 1947/10/6-5	0.50	
الحدث: مظاهرات المهاجرين الجزائريين في فرنسا — تار خه: 1961/10/17	0.75	
3) التعريف بالشخصيات التالية:		
❖ العربي بن مهيدي: (1957/1923) مناضل وثوري جزائري، كان عضو في حركة الانتصار للحريات الديمقراطية، وفي المنظمة الخاصة، ثم عضو في اللجنة الثورية للوحدة والعمل، ومجموعة 22 ، ومجموعة 06، أحد مفجري الثّورة التحريرية، قائد المنطقة الخامسة وهران، ترأس مؤتمر الصومام 1956، عضو لجنة التنسيق والتنفيذ، استشهد عام 1957...	0.75	
❖ جورج بوش الأب: رئيس الولايات المتحدة الأمريكية (1993/1989)، شهدت فترة حكمه نهاية الحرب الباردة وتفكك الاتحاد السوفياتي والكتلة الشرقية، حضر مؤتمر مالطا 1989 ومؤتمر باريس 1990، قاد العدوان على العراق عام 1991، صاحب فكرة النظام الدولي الجديد...	0.50	
❖ هواري بومدين: زعيم عسكري وسياسي جزائري، من قادة الثورة التحريرية، عضو المجلس الوطني للثورة عام 1958، قائد أركان جيش التحرير الوطني عام 1960، وزيرا للدفاع من (1965/1962)، ثم رئيسا لمجلس الثورة (1976/1965) ورئيسا للجمهورية (1978/1976)، دعم حركات التحرر في العالم، أحد أقطاب حركة عدم الانحياز، نادى بنظام دولي اقتصادي جديد 1974...	0.75	
*الجزء الثاني:		
* مقدمة: صراع القوتين وانعكاساته على العالم الثالث. (تقبل كلّ مقدمة وظيفية)	0.50	
1) أسباب الصراع بين القوتين:		
❖ زوال مبررات التحالف الذي كان قائما بينهما خلال الحرب العالمية 2.		
(تقبل كلّ الإجابات الصحيحة الأخرى)		

odrous.com

❖ الاختلاف الايديولوجي بين القوتين(الاتحاد السوفياتي الشيوعي والولايات المتحدة الامريكية الرأسمالي). ❖ بروزهما كقوتين جديدتين بعد الحرب العالية2 والبحث عن مناطق النفوذ ❖ تراجع مكانة القوى التقليدية (فرنسا وبريطانيا)... ❖ سيطرة الاتحاد السوفياتي على أوربا الشرقية وانتشار الأفكار الشيوعية داخل أوربا وخارجها. ❖ وجود رؤساء متشددين (ستالين في الاتحاد السوفياتي وترومان في الولايات المتحدة الأمريكية).	0.25 × 6	
2) **انعكاساته على العالم الثالث:** ❖ دعم الاتحاد السوفياتي للعديد من حركات التحرر في العالم الثالث لأضعاف الكتلة الغربية ... ❖ أصبحت دول العالم الثالث مسرحا للصراع (أزمات دولية مثال :لقناة السويس ، ازمة كوريا ...). ❖ تعرض العديد من دول العالم 3 للتدخل في شؤونها الدّاخلية(تغيير الأنظمة، الاغتيالات...). ❖ انتهاج الو م ا سياسة ملئ الفراغ في بعض الدول (الفيتنام...). ❖ احتضان بعضها لمقرات الاحلاف العسكرية (مثال وحلف جنوب شرق اسيا1954و حلف بغداد 1955) ❖ ظهور حركة عدم الانحياز . ***خاتمة:** رغم سلبيات الصراع إلاّ أنّه مكّن كتلة العالم الثالث من رفضه وتبني سياسة الحياد الايجابي... **(تقبل كلّ خاتمة وظيفية)**	0.25 × 6 0.50	04
***الجغرافيا:** ***الجزء الأول:** 1) **شرح ما تحته خطّ في النّص:** ❖ **النظام الاشتراكي:** نظام سياسي واقتصادي واجتماعي يقوم على الملكية العامة لوسائل الإنتاج ويسعى لتحقيق المنفعة العامة، تبناه الاتحاد السوفياتي عام 1917 (نجاح الثورة البلشفية).... ❖ **صندوق النقد الدولي:** مؤسسة مالية عالمية تأسست عام 1945، بموجب مؤتمر بروتون وودز الذي انعقد في عام 1944، مقره واشنطن الولايات المتحدة الأمريكية، يهدف إلى تسيير النقد الدّولي، وتقديم الاستشارة والدّعم للدّول التي تواجه مشاكل مالية واقتصادية.... ❖ **الميزان التجاري:** الفرق بين قيمة الصادرات وقيمة الواردات لدولة ما خلال سنة ويكون في حالة فائض أو عاجز أو توازن ...	0.50 0.75	
2) **التعليق على المعطيات الإحصائية الواردة في الجدول والتي تمثّل أهم الشركاء التجاريين للو.م. الأمريكية عام 2020.** ❖ تباين نسب الصادرات ونسب الواردات بين شركاء الولايات المتحدة الأمريكية. ❖ ارتفاع نسب صادرات الولايات المتحدة الأمريكية لكل من كندا والمكسيك. ❖ ارتفاع نسب واردات الولايات المتحدة الأمريكية مع الصين. ❖ ارتفاع نسب المبادلات التجارية الامريكية مع الدول الثلاثة مجتمعة: الواردات 42.2 %، الصادرات41.4 %.	0.75 0.50 × 4	06
3) **التوقيع على خريطة العالم المرفقة دولتين مصدرتين للبترول ودولتين مستوردتين له.** **– العنوان: 0.50 ن. – المفتاح: 0.50 ن. – الإنجاز أو التوقيع:* دولتان مصدرتان:(الجزائر، المملكة العربية السعودية.....) 0.25 × 2 = 05.0 ن. – دولتان مستوردتان: (الو.م.أ، ألمانيا.....) 0.25 × 2 = 0.50 ن.** ***ملاحظة:** (تقبل كلّ الدّول المصدرة والمستوردة الأخرى). **(تقبل كلّ الإجابات الصحيحة الأخرى)**	02	

odrous.com

*<u>**الجزء الثاني:**</u>		
*<u>**مقدمة**</u>: القمح بين العوامل المتحكمة في أسعاره وانعكاسات نقص إنتاجه على دول الجنوب.	0.50	
1) <u>**العوامل المتحكمة في أسعار القمح**</u>: **(تقبل كلّ مقدمة وظيفية)**		
❖ خضوعه لقانون السوق (العرض والطلب)...		
❖ نوعية القمح وجودته (القمح اللين والصلب...).		
❖ دور الشركات الاحتكارية(كارتل القمح) في تحديد أسعاره...	0.25	04
❖ الأزمات السياسية التي تحدث في مناطق إنتاجه (مثلا: الحرب بين روسيا وأوكرانيا)	× 6	
❖ تحكم الظروف الطبيعية والمناخية في إنتاجه...		
❖ ضعف الاستثمارات في انتاجه في دول الجنوب .		
2) <u>**الانعكاسات السلبية في نقص إنتاجه على دول الجنوب**</u>:	0.50	
❖ ارتفاع فاتورة الاستيراد (إنهاك الخزينة) وارتفاع المديونية لبعض الدول ...	0.25	
❖ حدوث اضطرابات اجتماعية (غياب الاستقرار...).	0.25	
❖ تعرض الدّول المستوردة للضغوطات والتدخلات (السلاح الأخضر)...	0.50	
❖ انتشار سوء التغذية والأمراض والمجاعات...	0.50	
*<u>**خاتمة**</u>: يبقى القمح الغذاء الأساسي والاستراتيجي يستوجب توفيره... **(تقبل كلّ خاتمة وظيفية)**		
(تقبل كلّ الإجابات الصحيحة الأخرى		

odrous.com

العنوان: أعمدة بيانية تمثّل أكبر البلدان المستهلكة للغاز الطبيعي في العالم بين سنتي 2020 و2021.

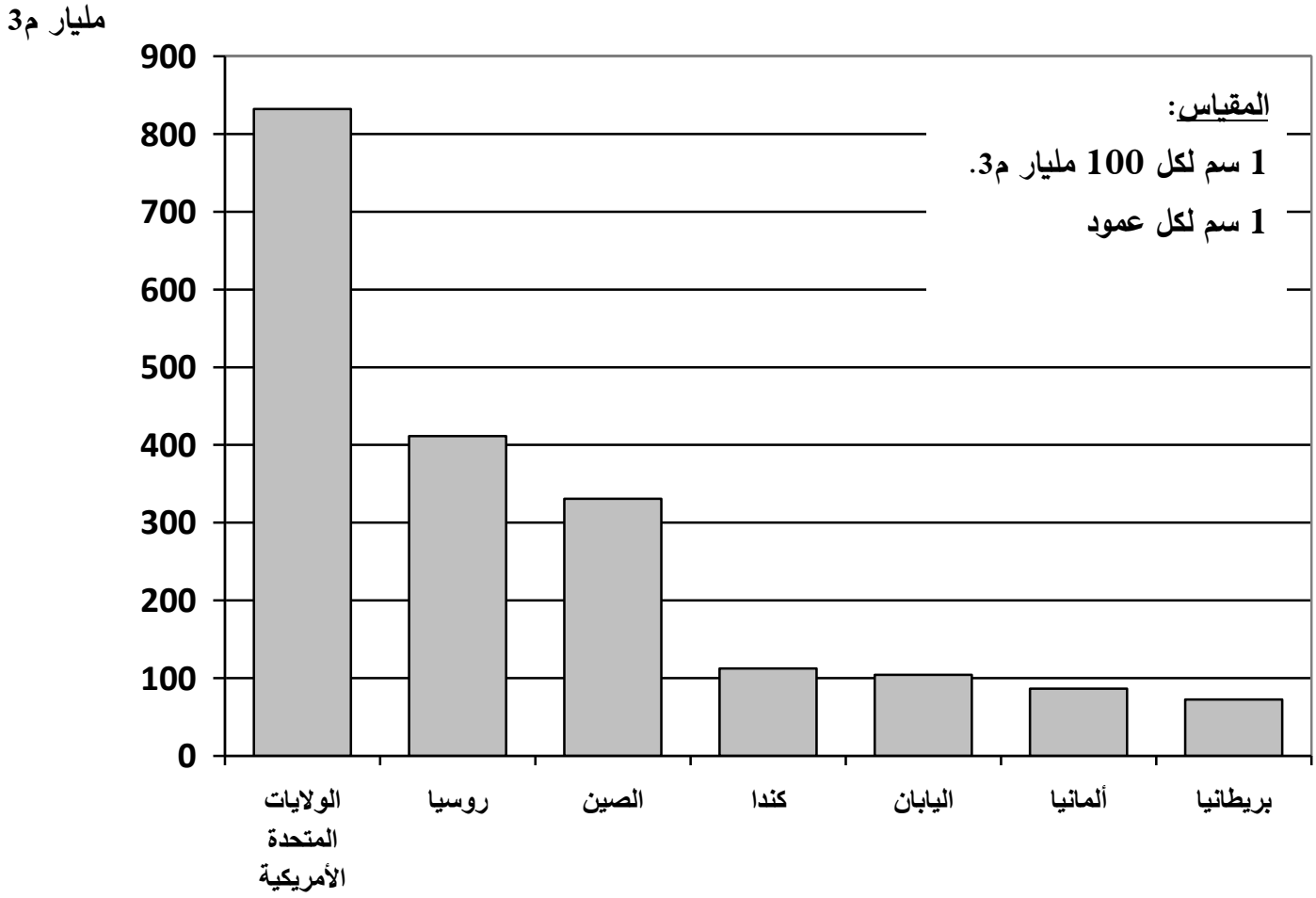

odrous.com

العنوان: توقيع الحدثين التاريخيين على خريطة الجزائر التاريخية.

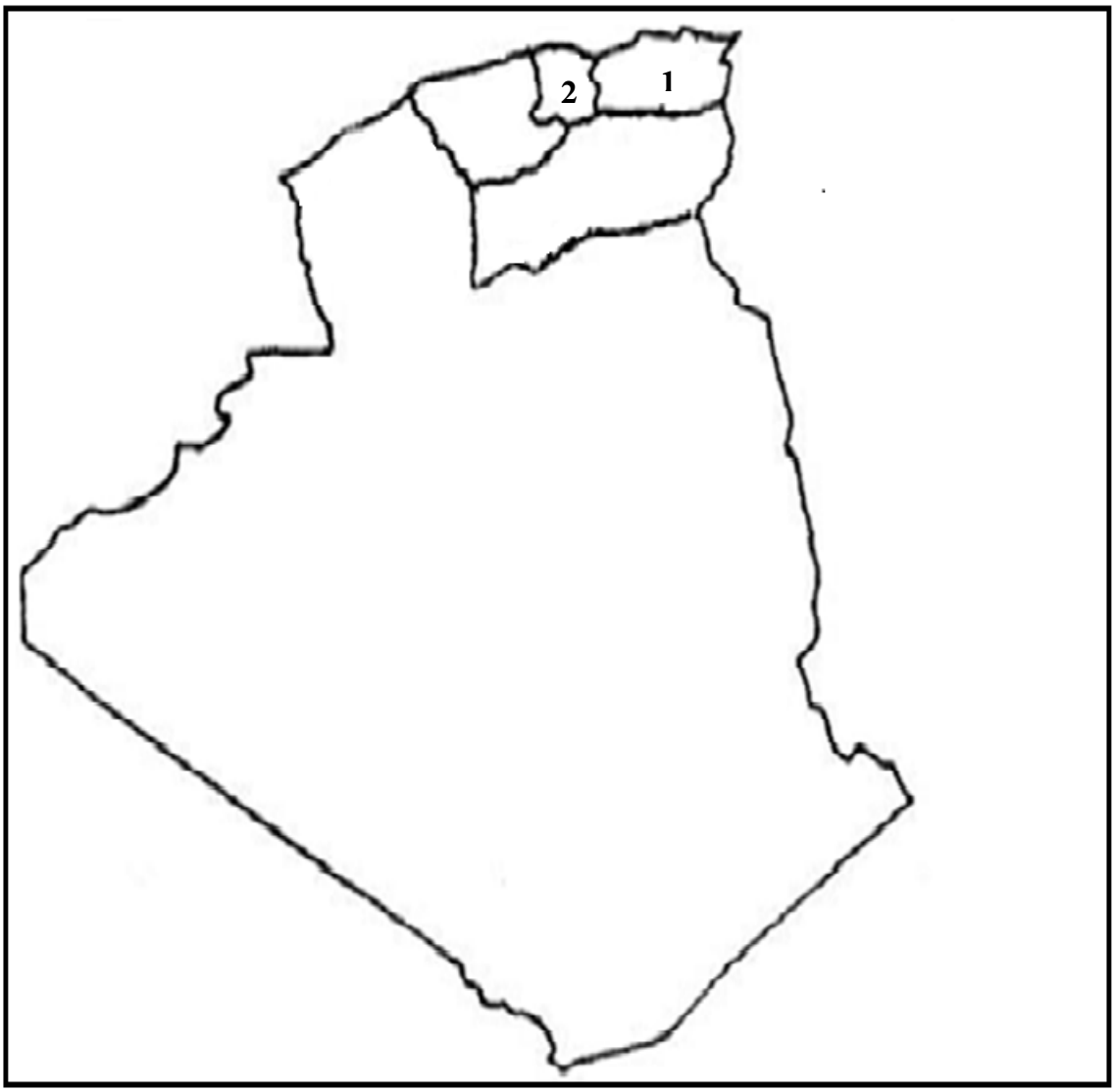

المفتاح: *1) هجومات 20 أوت 1955 (المنطقة الثانية الشمال القسنطيني).
* 2) انعقاد مؤتمر الصومام 20 أوت 1956 (المنطقة الثالثة القبائل).

odrous.com

العنوان: التوقيع على خريطة العالم المرفقة دولتين مصدرتين للبترول ودولتين مستوردتين له

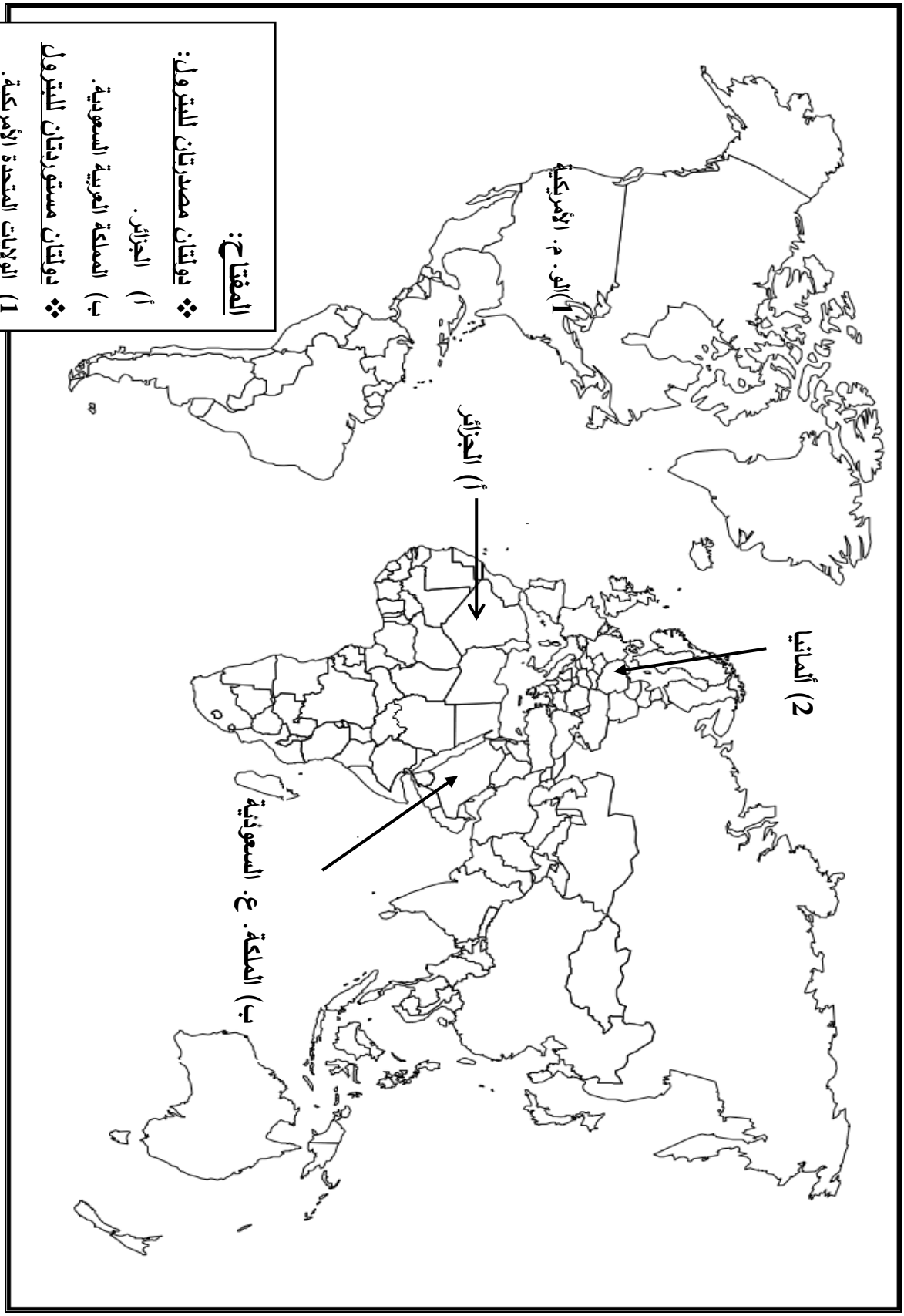

المفتاح:

❖ **دولتان مصدرتان للبترول:**

أ) الجزائر.

ب) المملكة العربية السعودية.

❖ **دولتان مستوردتان للبترول**

1) الولايات المتحدة الأمريكية.

2) ألمانيا.

odrous.com